Berechnungen am Viereck

Bestimme jeweils die Länge x bei den folgenden Vierecken. Runde die Längen auf 2 Nachkommastellen und die Winkel auf 1 Nachkommastelle.

Sind alle 3 Werte richtig berechnet, dann kannst du mit Hilfe der Vorkommastellen und der folgenden Tabelle ein Lösungswort ermitteln, das den Namen einer europäischen Hauptstadt angibt.

0	1	2	3	4	5	6	7	8	9
B	L	A	I	M	R	D	O	N	S

1.)

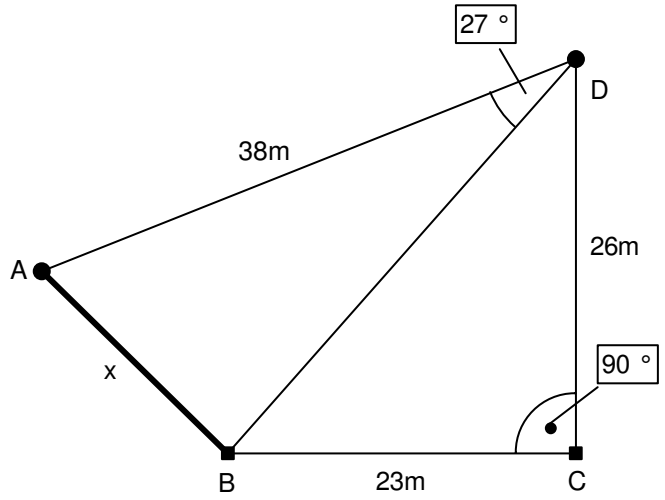

2.)

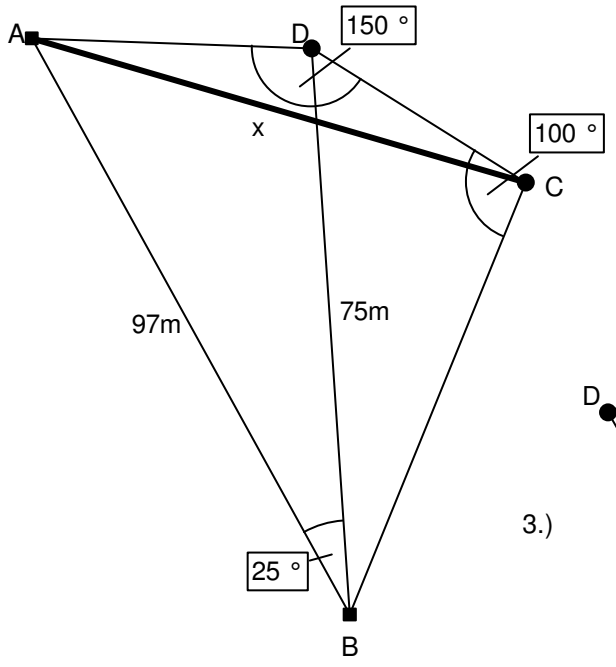

3.)

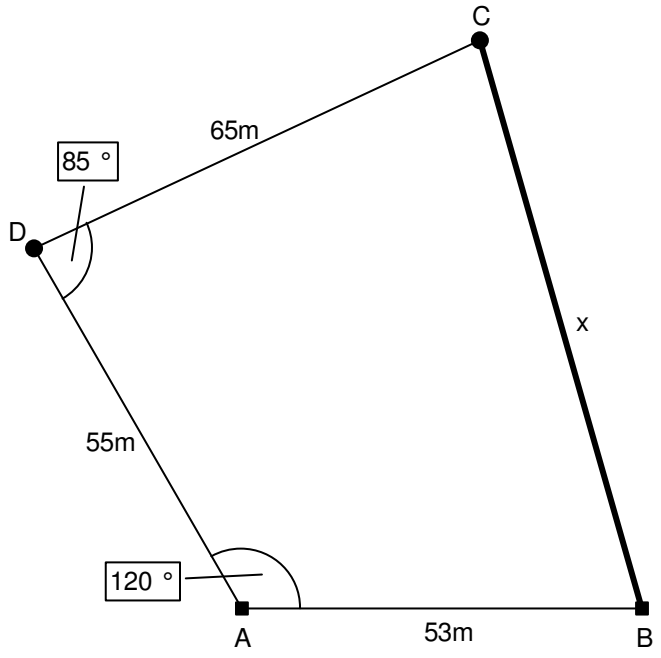

Die Hauptstadt heißt: